Víz kvíz

1., Az alábbi madarak közül melyek a vonuló (költöző) fajták?

fekete gólya

kanalas gém

gulipán

tőkés réce

rétisas

2., Igazak vagy hamisak az alábbi állítások?
A,
A hermelin kedveli a természetes vizek környékét.
Bundája ősszel még nem teljesen fehér, hanem a háta menyétéhez hasonlóan barna, csak a fekete farokvég különbözteti meg a menyéttől.

B,
Az aranysakál régies neve nádifarkas.
Magyarországon elsősorban az északi országrészben fordul elő.

C,
Októberre a gatyás ölyvek már elhagyják hazánkat.
Helyüket az északi tundrák felől érkező kígyászölyvek foglalják el.

D,
Az ökörszem télen sem vonul déli égtájakra.
Az állomány egy része a nádasokból az erdőkbe költözik.

4., Mit ábrázolnak az alábbi képek?





5., Párosítsd össze az alábbi vadászati témájú könyveket a szerzőjükkel.

Szerző	**Könyv címe**
1., Maderspach Viktor	A., Erdőn, mezőn
2., Kittenberger Kálmán	B., Az erdélyi régibb és közelebbi vadászatok és vadak
3., Újfalvi Sándor	C., Vadász- és gyűjtőúton Kelet-Afrikában, 1903-1926
4., Széchenyi Zsigmond	D., Havasi vadászataim
5., Bársony István	E., Szarvasok nyomában és egyéb írások

6., Melyik hajózócsatorna milyen hosszú? Mikor nyitották meg őket?

Csatorna neve	**Hossza**	**Megnyitás éve**
1., Panama-csatorna		
2., Szuezi-csatorna		
3., Korinthoszi-csatorna		
4., Keleti-főcsatorna (Tisza–Berettyó-csatorna)		

7. Írjátok a művek mellé szerzőjük nevét!

A Dunánál …….
A Tisza ……..
Tiszai csönd ……..……..…..
A dunai hajós ……..…….……...
Az aranyember …….…….

8. Milyen kertészek telepedtek le Bécsben a XIX. század végén?

a román b török c szerb d bolgár

9. Meander alatt a következőt értjük:

a	görög isten	b	tengeri hal	c	folyókanyarulat	d	római étel

10. Melyik országokban találhatók az alábbi védett területek?

Donauauen Nemzeti Park ……..…
Kopácsi Rét Természetvédelmi Terület …….…….
Fruska Gora Nemzeti Park ……..…..…
Gornje Podunavlje Természetvédelmi Terület ……..……

11. Melyik Széchenyi hajózott el Budapestről Párizsba a Dunán?

a	Ferenc	b	István	c	Zsigmond	d	Ödön

12. Mi a „siebnerin”?

a	veszélyeztett hal	b	hajótípus	c	vízinövény	d	német étel

13. Nevezzétek meg a számokkal jelölt fővárosokat.

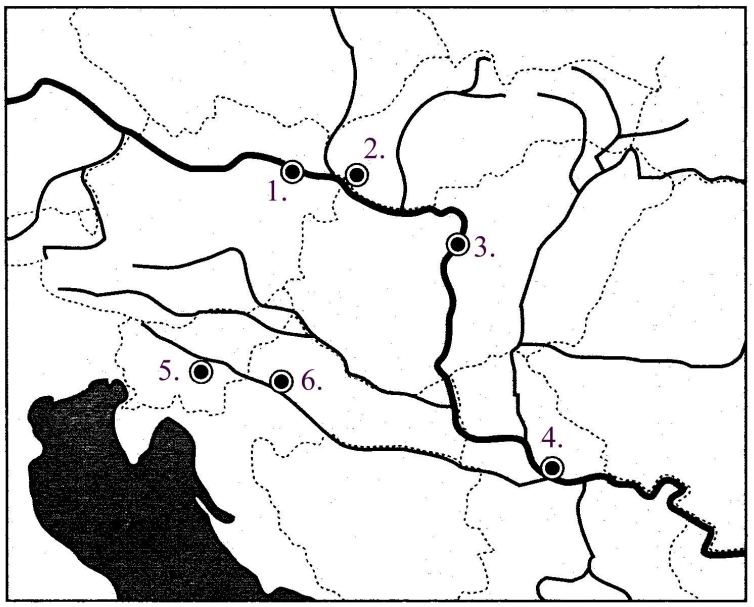

14. Mi a fokgazdálkodás?

a	ősi halászati tevékenység	b	fokhagyma termesztése	c	dombtetőn való állattartás	d	üvegházi gazdálkodás

15. Melyik foglalkozás használja a „pörgetést”?

a	méhész	b	bognár	c	kosárfonó	d	fazekas

16. Melyik ártéren élő fa volt a teknővájók keresett alapanyaga?

a	tölgyfa	b	szilfa	c	nyárfa	d	égerfa

17. Mi a kosárfonás alapanyaga?

a	száraz kóró	b	fűzvessző	c	égerfa vessző	d	nyárfavessző

18. Mi a török paradicsom?

a	padlizsán	b	zöld paprika	c	sárga dinnye	d	spárga

19. Milyen hal látható a képen?



a	csuka	b	kecsege	c	harcsa	d	ponty

20. Melyik két ország területén fekszik a Duna-delta Bioszféra-rezervátum?

a	Ukrajna és Románia		Németország és Ausztria
c	Horvátország és Magyarország	d	Bulgária és Románia